Wo werden die Menschen leben?

1. Arbeite nach der Methode „Diagramme verbalisieren“ im Schulbuch *überall Geographie 4* auf Seite 21. Stelle Vermutungen an, wie sich die Bevölkerung in diesen Staaten zukünftig entwickeln wird.

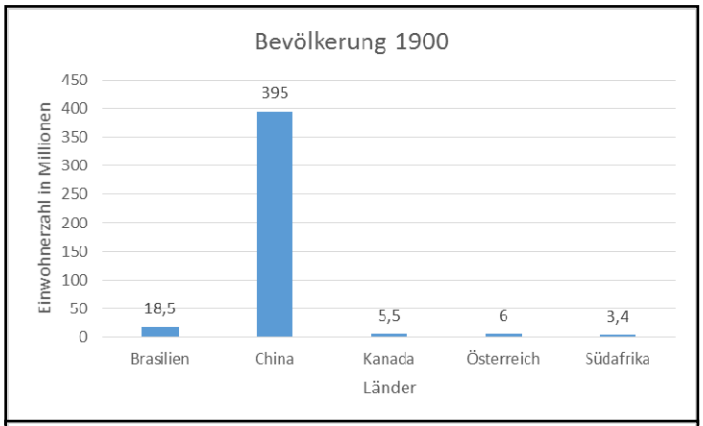

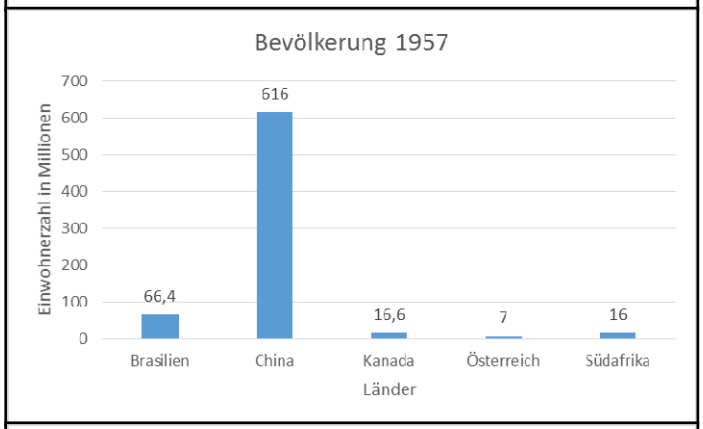

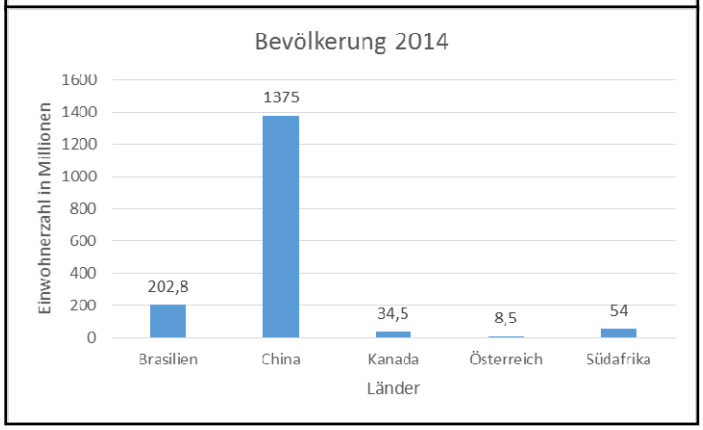

Quelle: UN 2015/2016, Statistik Austria

© Österreichischer Bundesverlag Schulbuch GmbH & Co. KG, Wien 2019 | www.oebv.at
Alle Rechte vorbehalten. Von dieser Druckvorlage ist die Vervielfältigung für den eigenen Unterrichtsgebrauch gestattet.
Die Kopiergebühren sind abgegolten. Für Veränderungen durch Dritte übernimmt der Verlag keine Verantwortung.