1. Zeichne den Quader mit dem rechtwinkligen Dreieck in Grund-, Auf- und Kreuzriss.

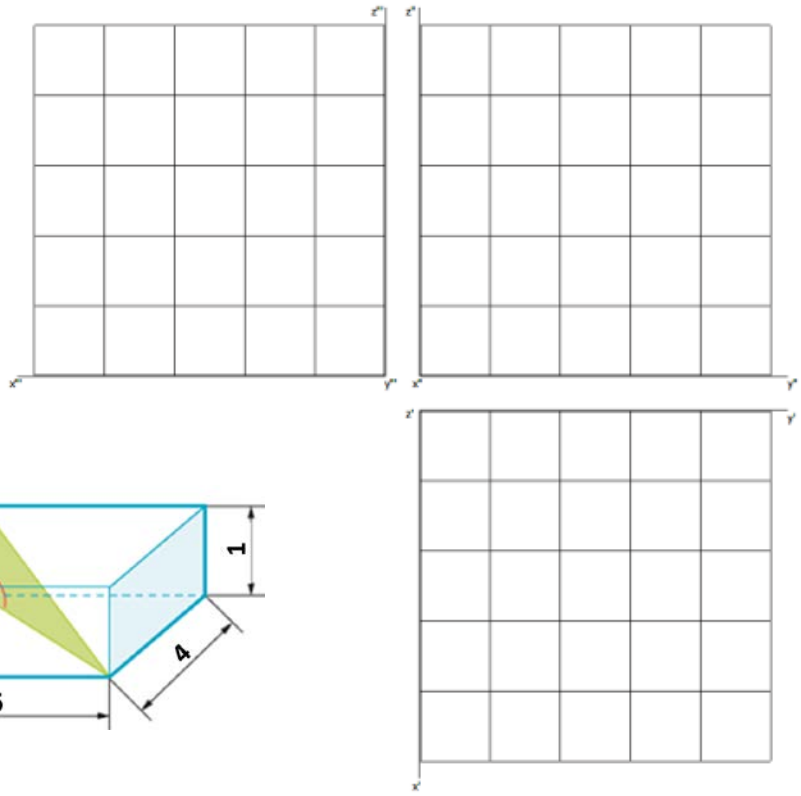

a)

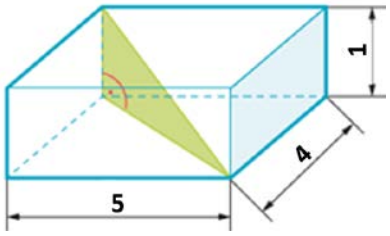

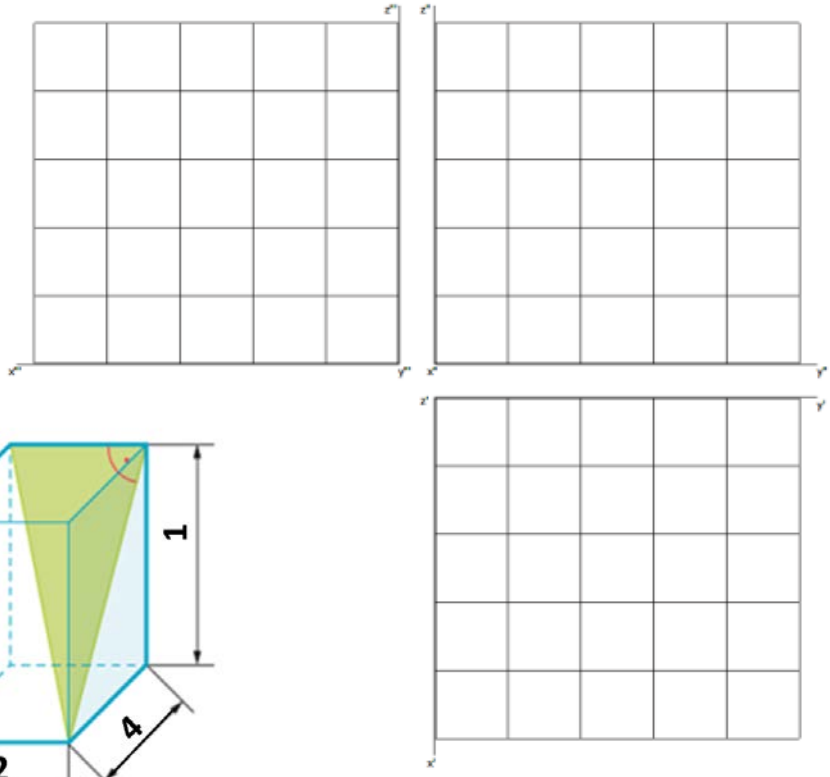

b)

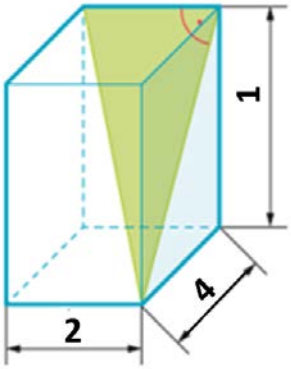

© Österreichischer Bundesverlag Schulbuch GmbH & Co. KG, Wien 2026 | www.oebv.at
Kopiervorlagen-Sammlung Raumgeometrie zu Schritt für Schritt Mathematik 4 | Manfred Blümel, Thomas Müller, Karin Vilsecker
Alle Rechte vorbehalten. Von dieser Druckvorlage ist die Vervielfältigung für den eigenen Unterrichtsgebrauch gestattet.
Die Kopiergebühren sind abgegolten. Für Veränderungen durch Dritte übernimmt der Verlag keine Verantwortung.