1 **Als Netz werden alle Begrenzungsflächen eines Körpers bezeichnet.**

(Material: kariertes Papier, Schere)

Übertrage das Netz auf das Papier und schneide es aus.

Falte es zu einem Körper. Welcher Körper ergibt sich?

a)

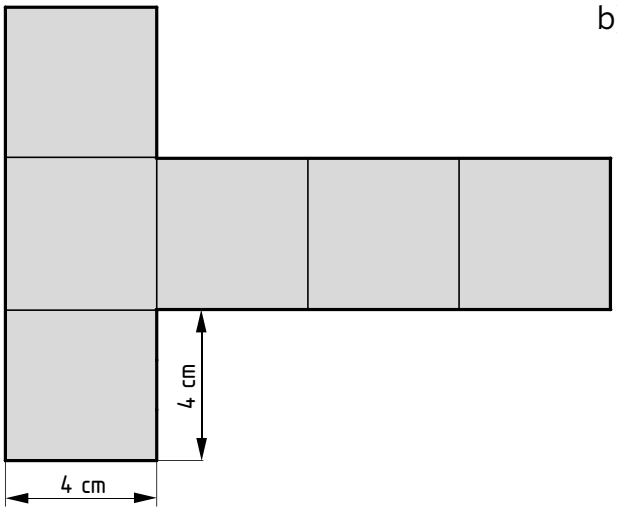

b)

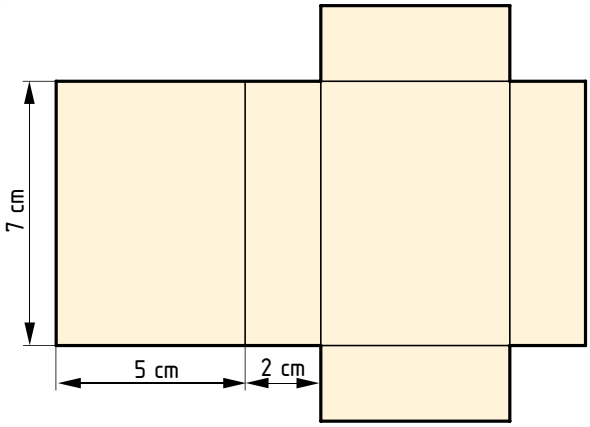

2 **Bemale gleich große Flächen im Quadernetz mit derselben Farbe.**

Berechne die Oberfläche.

a)

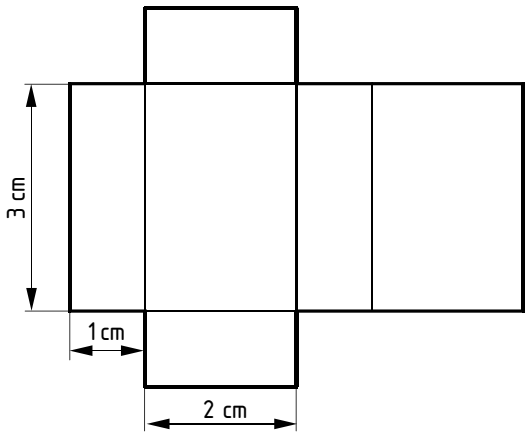

b)

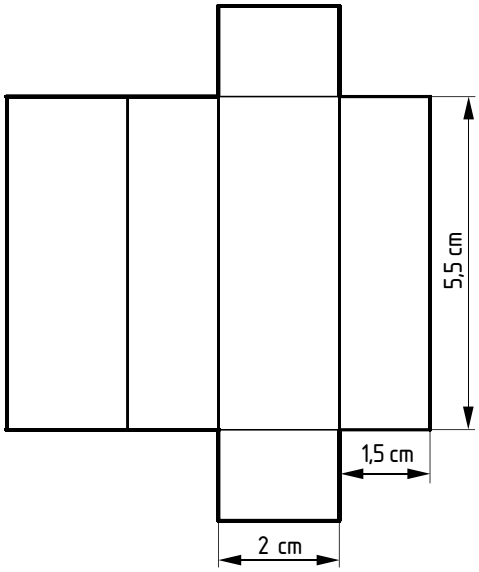

© Österreichischer Bundesverlag Schulbuch GmbH & Co. KG, Wien 2017 | www.oebv.at | Schritt für Schritt Mathematik 1
Alle Rechte vorbehalten. Von dieser Druckvorlage ist die Vervielfältigung für den eigenen Unterrichtsgebrauch gestattet.
Die Kopiergebühren sind abgegolten. Für Veränderungen durch Dritte übernimmt der Verlag keine Verantwortung.